Série 1

(1) $2 + \frac{3}{10} + \frac{9}{1000}$ sous forme décimale

(2) Calculer $\frac{3}{2}$ de 40 pommes.

(3) 1 m^2 est l'aire …

(4) Décoder la figure :

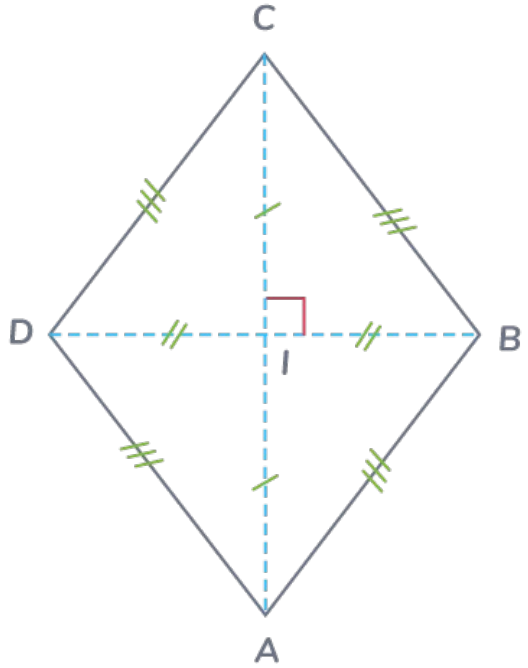

Série 2

(1) $7{,}043 = 7 + \frac{\dots}{\dots}$

(2) Calculer $\frac{5}{4}$ de 14 g

(3) L'aire d'un carré de 1 dm de côté est …

(4) Décoder la figure :

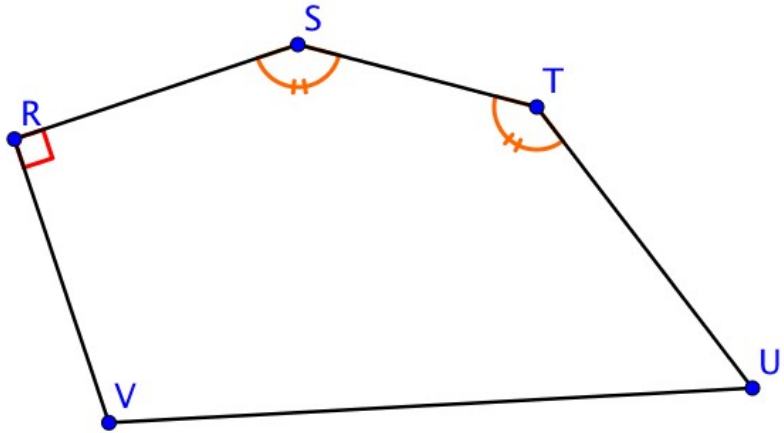

Série 3

(1) $\frac{3}{10} + \frac{2}{1000}$ sous forme décimale

(2) Calculer $\frac{4}{2}$ de 25 bonbons

(3) 1 cm^2 est l'aire …

(4) Quelle est la nature de la figure ?

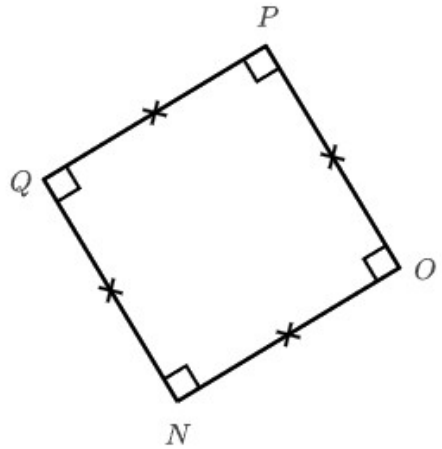

Série 4

(1) $0{,}032 = \dfrac{\cdots}{\cdots}$

(2) Calculer $\dfrac{5}{4}$ de 10 m

(3) L'aire d'un carré de 1 m de côté est …
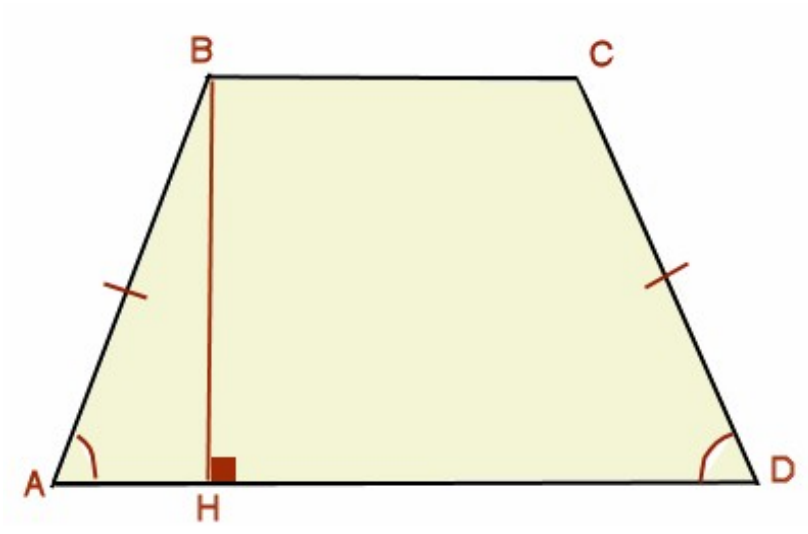
(4) Décoder la figure :