Série 1

(1) 1 cm^2 est l'aire …

(2) $\frac{1}{\dots} = 10 \times \frac{1}{100}$ *

(3) $\frac{3}{4}$ sous forme décimale

(4) Quelle est la nature de la figure ?

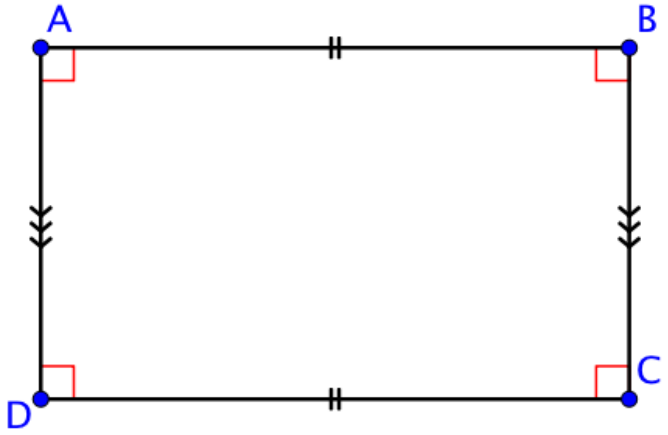

Série 2

(1) L'aire d'un carré de 1 dm de côté est …

(2) $\dfrac{1}{\ldots} = 10 \times \dfrac{1}{100}$

(3) 2,5 sous forme fractionnaire

(4) Décoder la figure :

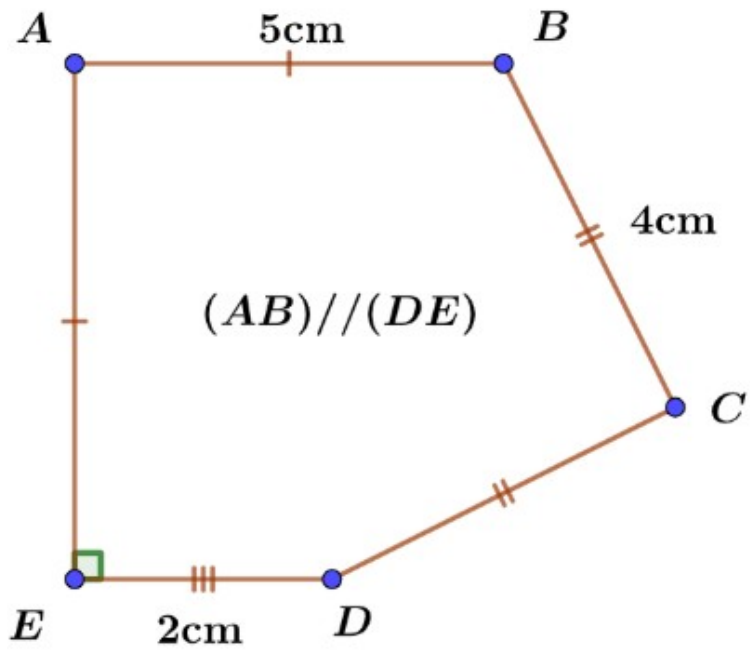

Série 3

(1) L'aire d'un carré de 1 m de côté est …

(2) $\dfrac{1}{100} = \ldots \times \dfrac{1}{1000}$

(3) $\dfrac{4}{2}$ sous forme décimale

(4) Quelle est la nature de la figure ?

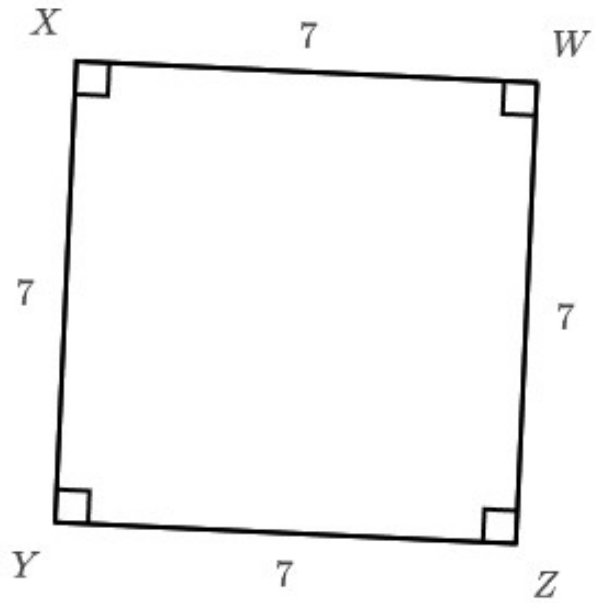

Série 4

(1) 1 dm^2 est l'aire …

(2) $\dfrac{1000}{1000} = \ldots$

(3) 1,5 sous forme fractionnaire
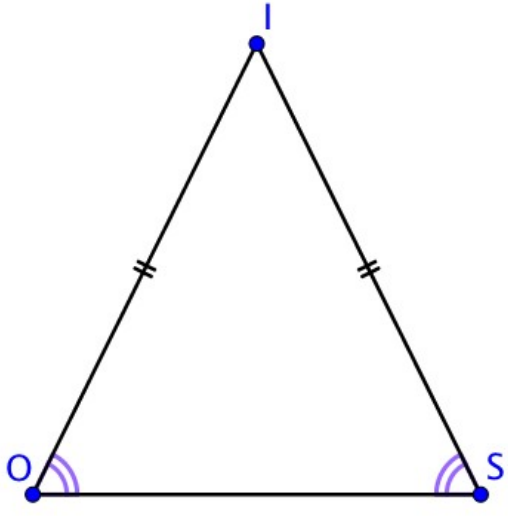
(4) Décoder la figure :